EVALUATION 04 : (4ème)
Savoirs et savoir-faire testés dans cette évaluation :

TG1 05		**TG1 06**					

Lorsque cela est possible, démontre que le triangle est ou n'est pas rectangle.

TRIANGLE OEF	TRIANGLE ABC	TRIANGLE GHI	TRIANGLE MNO
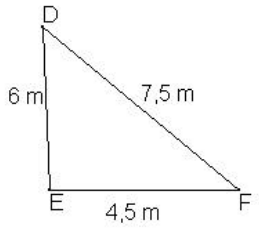	ABC est un triangle. AB = 10 cm. AC = 15 cm. BC = 7 cm.	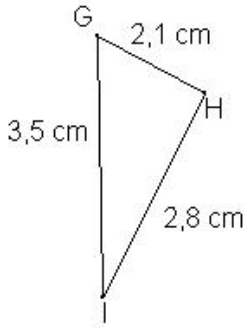	MNO est un triangle. MN = 6 m. NO = 4 m.

EVALUATION 04 : (4ème)
Savoirs et savoir-faire testés dans cette évaluation :

TG1 05		**TG1 06**					

Lorsque cela est possible, Démontre que le triangle est ou n'est pas rectangle.

TRIANGLE OEF	TRIANGLE ABC	TRIANGLE GHI	TRIANGLE MNO
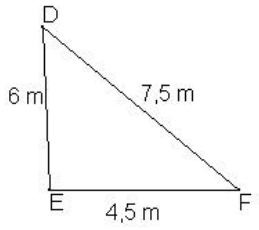	ABC est un triangle. AB = 10 cm. AC = 15 cm. BC = 7 cm.	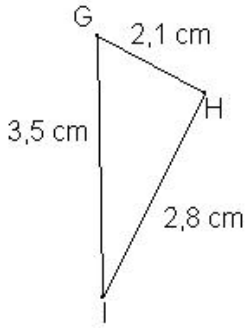	MNO est un triangle. MN = 6 m. NO = 4 m.

EVALUATION 04 : (4ème)
Savoirs et savoir-faire testés dans cette évaluation :

TG1 05		**TG1 06**					

Lorsque cela est possible, Démontre que le triangle est ou n'est pas rectangle.

TRIANGLE OEF	TRIANGLE ABC	TRIANGLE GHI	TRIANGLE MNO
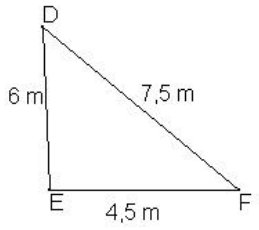	ABC est un triangle. AB = 10 cm. AC = 15 cm. BC = 7 cm.	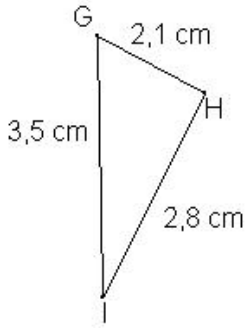	MNO est un triangle. MN = 6 m. NO = 4 m.