					Vocabulaire / Définition / Représentation	B	A	R	E1	E2	E3	N/3
T	N	4	0	2	Trouver l'opposé d'une fraction	■						
T	N	4	0	6	Placer une fraction sur une droite graduée		■					
T	N	4	0	7	Lire une fraction sur une droite graduée		■					

					Fractions et opérations	B	A	R	E1	E2	E3	N/3
T	N	4	1	3	Comparer deux fractions		■					

Trouve l'opposé des fractions suivantes :

$\frac{3}{4}$ ☐ $\frac{-5}{7}$ ☐ $\frac{4}{-8}$ ☐ $\frac{1}{2}$ ☐

Place les fractions A,B,C,D et E sur les droites graduée :

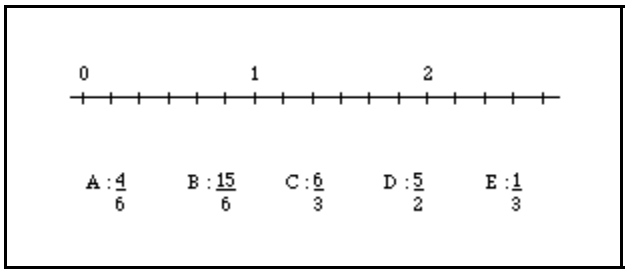

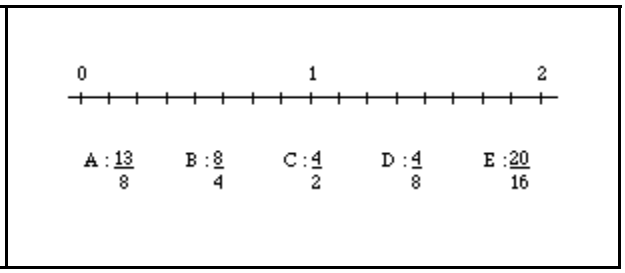

Trouve les fractions qui sont sur les droites :

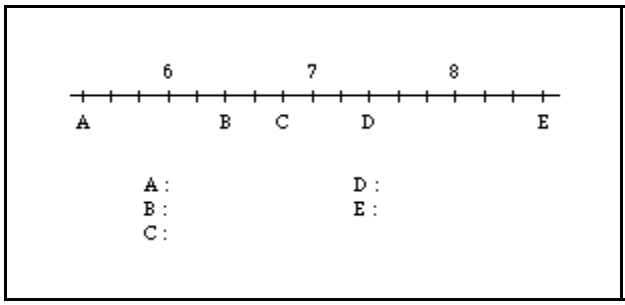

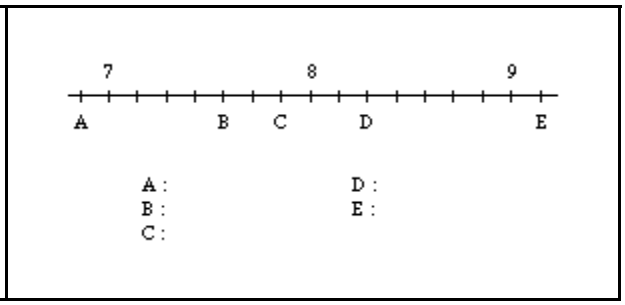

Complète par les symboles <,> ou =

$\frac{3}{5}$ ..... $\frac{3}{10}$ $\frac{4}{7}$ ..... $\frac{8}{7}$ $\frac{2}{3}$ ..... $\frac{1}{2}$ $\frac{2}{3}$ ..... $\frac{10}{15}$

$\frac{8}{7}$ ..... $\frac{7}{4}$ $\frac{5}{4}$ ..... $\frac{10}{8}$ $\frac{3}{4}$ ..... $\frac{1}{3}$ $\frac{3}{5}$ ..... $\frac{6}{11}$